Curso:

TRIGONOMETRÍA

Tema:

SISTEMAS DE MEDICIÓN ANGULAR II

Grado:

Anual SM

FÓRMULA GENERAL DE CONVERSIÓN

Es la relación que existe entre los números de grados sexagesimales (S), grados centesimales (C), y el número de radianes (R) que contiene un ángulo trigonométrico. En el gráfico tenemos:

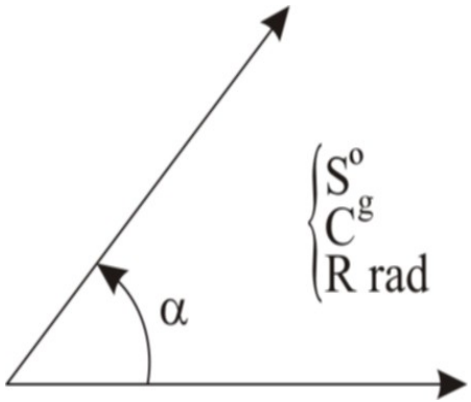

De la fig. : $S° = C^g = R\text{rad}$ (*)

Además: $180° = 200^g = \pi\text{rad}$ (**)

Dividiendo (*) entre (**) tenemos:

"Fórmula o Relación de Conversión"

Donde: S = Número de grados sexagesimales

C = Número de grados centesimales

R = Número de radianes

$S = 180k$
$C = 200k$
$R = \pi k$

$S = 9k$
$C = 10k$
$R =$

Mapa conceptual

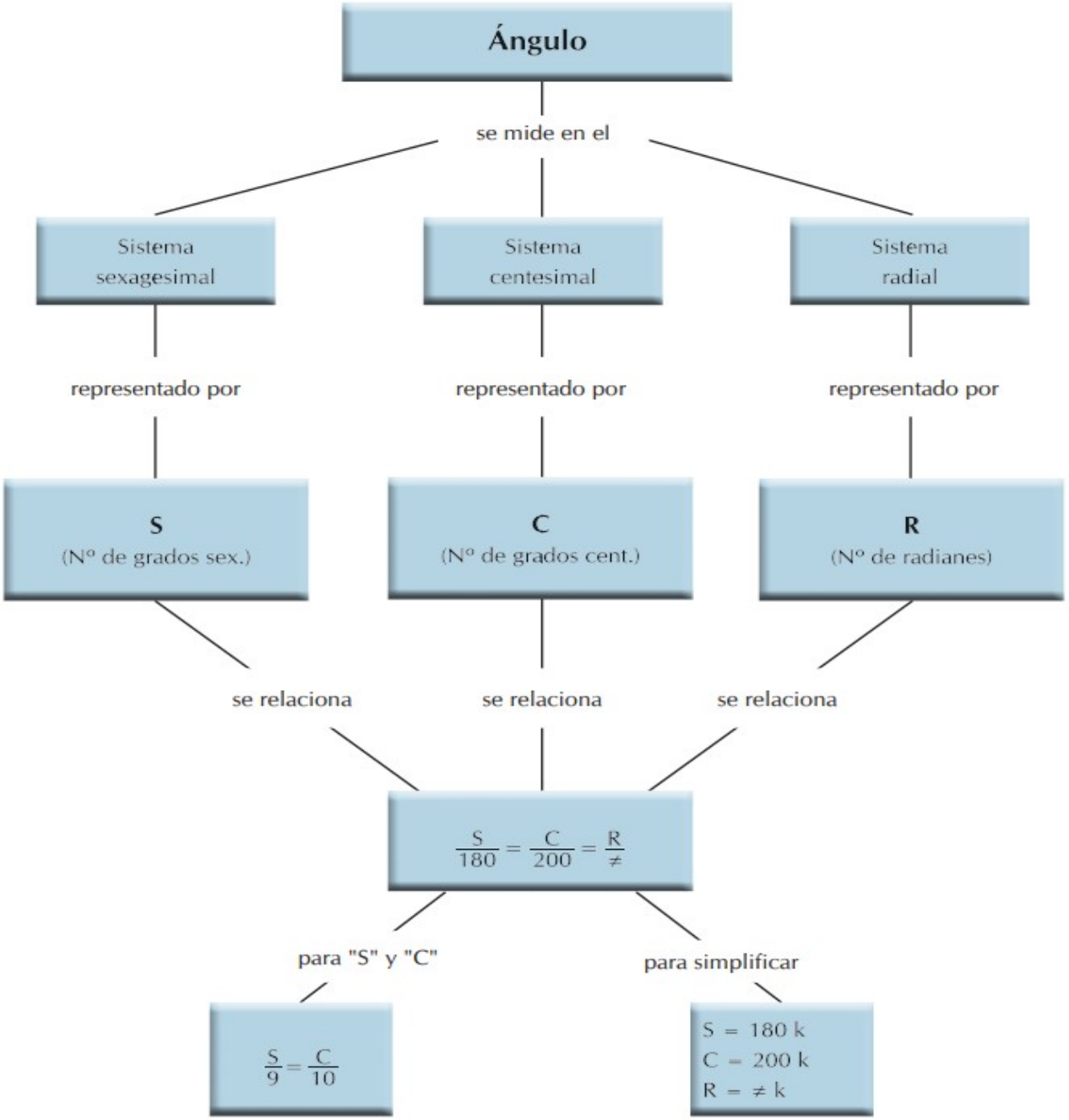

Ejercicio 1:
Siendo “S” y “C” los números convencionales, reducir:

$$P = \frac{3(S)+2(C)}{C-S}$$

S = 9k
C = 10k
R =

Resolución:

Utilizamos: S = 9k y C = 10k

Reemplazando:

$$P=\frac{3(9k)+2(10k)}{10k-9k} \Rightarrow P=\frac{27k+20k}{k}$$

$$P=\frac{47\cancel{k}}{\cancel{k}} \Rightarrow$$

P = 47

Ejercicio 2:
Siendo “S”, “C” y “R” lo conocido para un ángulo no nulo, reducir:

$$L=\frac{2\pi S-\pi C-30R}{\pi C+\pi S+10R}$$

Resolución

Por conveniencia utilizamos:
S = 180k, C = 200k y R = πk
Reemplazando:

L =

L =

L =

L =

Ejercicio 3:
Señale la medida circular de un ángulo que cumple:
2S C = 40 , siendo "S" y "C" lo conocido.

Resolución:

Piden: R

Utilizamos: S = 9k y C = 10k

Reemplazando:

2(9k) 10k = 40 → 8k = 40 → k = 5

S = 9k
C = 10k
R =

Piden: R → R = → R = = rad

Ejercicio 4:
Siendo “S”, “C” y “R” los números convencionales y además se cumple que:

Hallar: “R”

Resolución

Restando las expresiones:

$$\underline{S = x^2 + x + 3}$$

Queda: $C - S = 4$ → 10k □ 9k = 4 k = 4

S = 9k
C = 10k
R =

Piden: R → R = → R = = rad

Ejercicio 5:
Señale la medida sexagesimal de un ángulo, tal que: S = 2n + 1 y C = 3n 16, siendo “S” y “C” los números convencionales.

Resolución:

En este caso usaremos la siguiente relación para hallar “n”:

$$\frac{S}{9}=\frac{C}{10} \Rightarrow \frac{2n+1}{9}=\frac{3n-16}{10}$$

Multiplicando en aspa: →

n = 22

Reemplazando en “S”:

$$S=2(22)+1=¿\ 45°$$

Ejercicio 6:
Halle la medida centesimal de un ángulo , si el triple de su número de grados sexagesimales disminuido en su número de grados centesimales es igual a 51.

Resolución:

Piden: C (Centesimal)

.....Utilizamos: S = 9k y C = 10k

S = 9k
C = 10k
R =

Planteando: $3S - C = 51$

Reemplazando: $3(9k) - 10k = 51$

$17k = 51 \rightarrow k = 3$

C = 10k → C = 10(3) = 30^g

Ejercicio 7:
Señale la medida circular de un ángulo que cumple:
$2S \square C + 20R = 11,1416$ ($\pi = 3,1416$)
Siendo "S"; "C" y "R" lo conocido para dicho ángulo.

Resolución:

Piden: R

Utilizamos: $S = 9k$; $C = 10k$ y $R =$

Reemplazando:

$$2(9k) \square 10k + \cancel{20}(\ \cancel{\ }\ ) = 8 + 3,1416$$

$8k + \pi k = 8 + \pi$ → Factorizamos: $k(\cancel{8} + \pi) \cancel{=} 8 + \pi$ → $k = 1$

Piden: R → $R =$ → $R = \ =$ rad

Ejercicio

8. Sabiendo que la suma de los números de grados centesimales con el número de grados sexagesimales de un ángulo es a su diferencia como 57 veces su número de radianes es a 2. ¿Cuánto mide el ángulo en radianes?

Resolución

Piden: R

Planteando la ecuación: =

Nos conviene: S = 180k; C = 200k y R = πk

Reemplazando: =

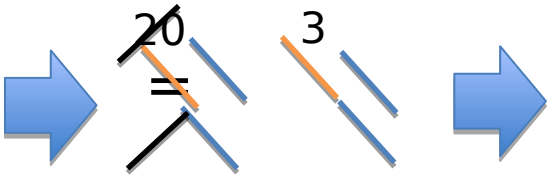

k =

Piden: R = πk

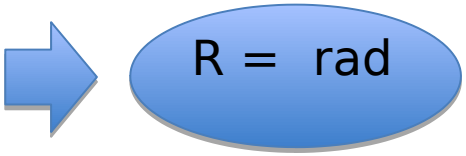

Ejercicio 9:

Señale la medida circular de un ángulo que verifica: $S + C + R = 95 + \frac{\pi}{4}$

siendo "S", "C" y "R" lo conocido para dicho ángulo.

Resolución

Piden: R

Utilizaremos: S = 180k; C = 200k

y R = πk

180k + 200k + πk = ⇒ 380k + πk =

k(380 + π) = → k =

Piden: R = πk R = π. ( ) ⇒ R = rad

Ejercicio 10:

Señale la medida circular de un ángulo, que cumple:

$$\left(\frac{\pi}{9}+\frac{\pi}{S}\right)\left(\frac{\pi}{10}+\frac{\pi}{C}\right)\left(20+\frac{\pi}{R}\right)=\frac{125\,\pi^3}{64\,SCR}$$

siendo "S" ; "C" y "R" lo conocido para dicho ángulo.

Resolución:

En este problema recurriremos mucho al álgebra así que presta mucha atención.

Nos conviene: S = 9k; C = 10k y R = $\frac{\pi k}{20}$

Reemplazando:

$$\left(\frac{\pi}{9}+\frac{\pi}{9k}\right)\left(\frac{\pi}{10}+\frac{\pi}{10k}\right)\left(20+\frac{\pi}{\frac{\pi k}{20}}\right)=\frac{125(\pi)^3}{64.9k.10k.\frac{\pi k}{20}}$$

Factorizando:

$$\frac{\cancel{\pi}}{9}\left(1+\frac{1}{k}\right)\frac{\cancel{\pi}}{10}\left(1+\frac{1}{k}\right)20\left(1+\frac{1}{k}\right)=\frac{5^3.\cancel{\pi^3}}{2^5.9.\cancel{\pi}.k^3} \Rightarrow 2^6\left(1+\frac{1}{k}\right)^3=\frac{5^3}{k^3}$$

Sacamos raíz cúbica a todos:

$$4\left(1+\frac{1}{k}\right)=\frac{5}{k} \Rightarrow k =$$

$$Piden: R=\frac{\pi}{20}.\frac{1}{4}\frac{\pi}{80}rad$$